معمای شطرنج

متوسط

نوبت حرکت با سفید است، آیا می توانید تنها در سه حرکت، مهره سیاه را مات کنید؟

خفن استریپ

سخت

حدس بزنید تصویر، چه کلمه ای را نشان می دهد! به نمونه توجه کنید و برای این که بدانید کلمه چند حرفی است، تعداد خانه های زیر تصویر را بشمارید.

○○○○○○○○

○○○○○○○○

هوش منطقی

در این قسمت معمایی را برای شما انتخاب کرده ایم که حل کردن آن چندان آسان نیست ولی تا آن را حل نکرده اید از آن دست نکشید. باید بگویید در بین اعداد این تصویر عدد متفاوت کدام است.

۱	۷۳	۲۸	۱۳	۲۲
۱۹	۱۰	۱۴۰	۴	۳۱
۲۵	۱۶	۳۷	۳۴	۱۲۷

بازی ریاضی

آسان

اگر کمی با اعداد رابطه خوبی داشته باشید، می توانید رمز ۵ رقمی مخفی شده را بر اساس داده های بالا بیابید؛ فقط کافی است کمی دقت کنید و رابطه بین اعداد را در سطرهای بالا پیدا کنید.

سه تا از این اعداد درست ولی فقط یکی در جای درست قرار دارد	۵	۲	۳	۹	۷
تمام اعداد غلط هستند	۰	۹	۴	۳	۱
دو تا از این اعداد درست و در جای درست قرار دارند	۴	۵	۰	۶	۳
دو تا از این اعداد درست ولی فقط یکی در جای درست قرار دارد	۹	۲	۸	۰	۴
دو تا از این اعداد درست ولی هیچ کدام در جای درست قرار ندارد	۸	۰	۹	۴	۲

تست هوش

متوسط

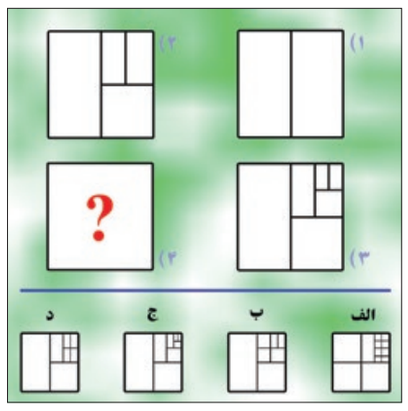

با توجه به تصویر داده شده، گزینه مناسب را انتخاب کنید.

عددیاب

متوسط

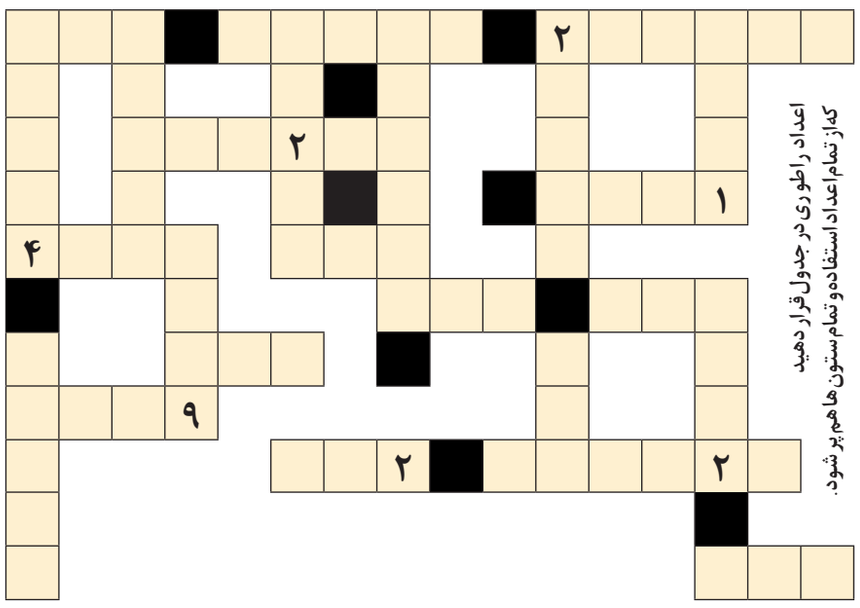

اعداد را طوری در جدول قرار دهید که از تمام اعداد استفاده و تمام ستون ها هم پر شود.

سه رقمی:	چهار رقمی:	پنج رقمی:	شش رقمی:
۱۲۹-۲۳۹-۳۴۹	۱۹۸۲-۲۵۳۹	۲۸۳۷۱-۳۷۲۸۹	۱۸۷۹۲۵-۲۹۵۶۱۸
۳۶۹-۴۵۱-۵۳۹	۴۵۸۲-۶۲۵۱	۳۹۸۷۴-۴۵۱۳۹	۳۷۵۲۹۸-۳۷۸۱۹۵
۷۵۸-۷۶۲	۷۳۵۱-۷۳۵۹	۵۹۲۳۱-۹۲۳۵۸	

معما

متوسط

معمای توپ ها

باید محتویات دو تا از پنج جعبه زیر را در یک کیسه بریزید. با ریختن کدام دو جعبه، بالاترین احتمال بیرون کشیدن یک توپ قرمز به صورت تصادفی رخ می دهد:

جعبه الف: ۳ توپ قرمز و ۵ توپ آبی
جعبه ب: ۴ توپ قرمز و ۶ توپ آبی
جعبه ج: ۷ توپ قرمز و ۹ توپ آبی
جعبه د: یک توپ قرمز
جعبه ی: ۱۲ توپ قرمز و ۱۴ توپ آبی

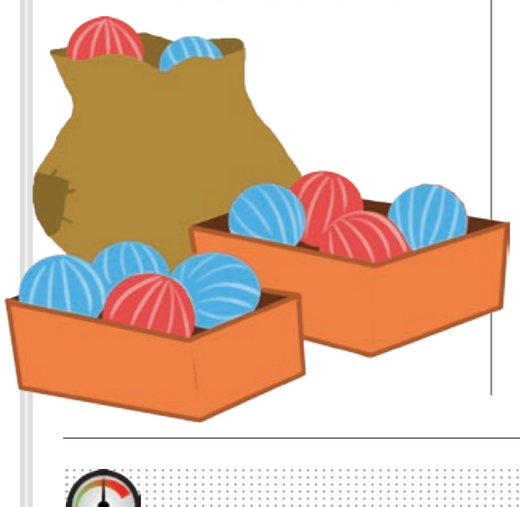

چی شده؟

سخت

گوشت ریزون!

سلام و دمتون گرم، باز هم کولاک کردین و برخلاف میل مون مجبور شدیم این بار هم خیلی از پیامک ها رو کم کنیم تا در صفحه جا بشن! به هر حال ممنون از همه دوستانی که درست و طبق روش گفته شده تو مسابقه شرکت کردن. پیامک های بی ربط و بی نام و بی مزه هم که متاسفانه طبق روال همیشه حذف شدن. چند تا از جمله های بانمک تر رو انتخاب کردیم که می خونید. توی صفحه فردا هم سوژه جدید مون رو ببینید و در موردش برامون بنویسید. منتظر پیامک هاتون هستیم. خوش باشین همیشه.

*وقتی مرده ها، زنده ها رو سر به نیست می کنن!
*اولی: بیا اینو الکی با زباله ها درست کردم که همسایه ها رو بترسونیم!
دومی: نکنه از ترس گوشت تنشون بریزه!
*اولی: چرا انقدر دور وایستادی بیا کمک کن بذاریم داخل تابوت. دومی: نه دست نمی زنم چون مرده ببینم گوشت تنم می ریزه.

قنبر محمدی

* وقتی نصف شب با داداشت داری پول های بابات رو قایم می کنی در صورتی که بابات زیر نظرتون داره!

الیاس فدیشه ای

*وقتی شکمت رو با یارانه پر می کنی!

زهانی

*وقتی اداره ها برای استخدام به جای عکس سه در چهار، عکس رادیولوژی کامل می خوان تا برای داشتن سلامت جسمانی، کسی استخوان شکسته نداشته باشه!

سید حسین آروند

*عکس سلفی از دیار باقی!

سید هاشم قاسمی

*وقتی اونوریا می فهمن ایران زم رو گرفته و گوشت رو تنشون نمونده!

سجاد آموزی

*وقتی مرده ها از زنده ها نا امید می شن!

فاطمه آخوند قرقی

*صبر کن ببینم فکر کنم قدش بلنده این توجانشه!

آرزو سالاری منوجان

*وقتی که کوه به کوه نمی رسه ولی مرده به مرده می رسه!

محمدرضا صدفیان

* ماشالا چقدر سنگینه ؛ استخونای دستم داره کنده می شه!

جمشید و ثوقیان

*وقتی دوستای وفادارت این جوری هستند که اگه گوشتت رو هم بخورن، استخوانت رو دور نمیندازن!

سید حسین

*وقتی مرده ها دارن آدمی رو که تا شنیده داره براش مهمون میاد و خودشو به مردن زده به خونش برمی گردونن!

آروند

*وقتی خواب می بینی مُردی یهوزنت بیدارت می کنه میگه پاشو روز جمعه است می خوام تمیز کاری کنم.

عباس یعقوبی

* دکور ویژه مهمان برای جلوگیری از خوردن میوه و تنقلات شب یلدا!

سید هاشم قاسمی تربت حیدریه

سودوکو

■ قانون: ارقام ۱ تا ۹ را در خانه های خالی بنویسید طوری که در هر سطر، در هر ستون و در هر مربع ۳ در ۳ هیچ رقمی تکراری نباشد.

متوسط ۳۰ دقیقه

۸					۱		۴	
		۲				۷		۱
			۴		۶	۲		
۶		۳	۹		۵		۲	
	۲		۱		۴	۹		۵
		۹	۵		۳			
۴		۱				۳		
	۸		۷					۹

بسیار سخت ۵۰ دقیقه

	۸	۳				۵		
		۹					۸	۷
۲				۱				
			۶			۲		۹
۸		۶			۱			
	۴			۷				۶
۶	۵		۹			۷		
		۸				۳	۲	

حل جداول و معماها



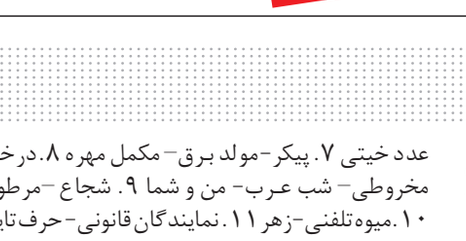

معمای شطرنج:
کیش و کیش و مات با ۵۷ ... Rxd5 Qxf7+!! Qxf7 Nd7#

آدم حسابی ـ دیالوگی:
خفن استریپ:

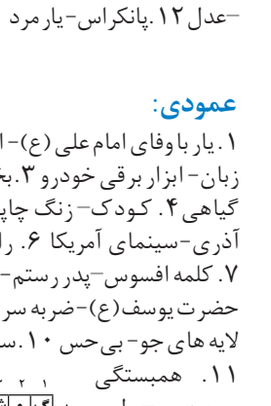

هوش منطقی:
عدد ۱۰۲۰ را با اعداد دیگر متفاوت است. تمامی اعداد دیگر در تصویر ۲۱ بخش پذیرند به ۲ کسیم بر ۲ بخش پذیرند به ۳ بخش پذیرند.

تست هوش:
گزینه (۲) تمام تصویر قبلی در مربع اضافه شده در گوشه سمت راست قرار می گیرد.

معمای توپ ها:
جعبه های «د» و «ی». این دو جعبه احتمال ۱۲/۱۲۷ (۲۶ درصد) بیرون کشیدن یک توپ قرمز را می دهند.

خراسان

جدول سخت | ۷۴۹

افقی: ۱. شهر جشنواره- ریاضی دان فرانسوی ۲. بهشت شداد- طالع- پسر کاوه آهنگر ۳. از خدایان باستان- نمک متبلور ۴. دوره ای در زمین شناسی- زی مایه ۵. عدد فوتبالی- فدراسیون جهانی کانو قایق پارویی- مخفف سیاه ۶. امپراتور دیوانه- اما- حرف نازی ها ۷. وحشی- داروی جوانی- نوعی اسلحه کمری ۸. پلیس سایبری ایران- پول ترکیه- صدمتر مربع ۹. اتحادیه تولیدکنندگان- بیماری واگیردار ۱۰. عقاید انتخاباتی- نفس چاق ۱۱. حلال رنگ- خونابه- قدیمی ترین بخش اوستا ۱۲. رمانی از الکساندر دوما- اصفهان قدیم

عمودی:
۱. پایتخت نپال- ذره بنیادین ۲. جنس خشن- واحد سنجش طول انگلیسی- نوعی موتورسیکلت مسابقه ۳. شهری در خراسان قدیم- مادر فریدون در روایت شاهنامه ۴. دریغ- پدر ترکی- طریق کوتاه ۵. پیچیدن- فیلمی با بازی بهرام افشاری ۶. قلیا- آهک- نوعی پارچه لطیف ۷. معبر رودخانه- سال آذری- زبان ۸. زبان برهمنان هند- مخفف مگابایت ۹. سقف دهان- صندلی راکب- عضو اصلی تنفس ۱۰. کاغذدان اداری- زالو ۱۱. اقیانوس پاسیفیک- پاره آتش- کدو تنبل ۱۲. تن پوش حمامی- باشگاه فوتبال انگلیسی

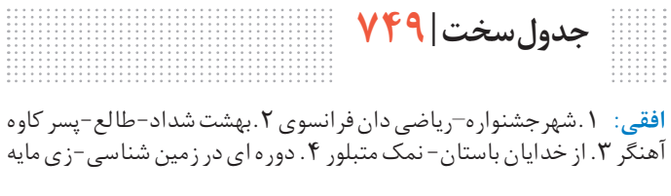

حل جدول شماره ۷۴۸

جدول متوسط | ۷۵۴۲

افقی: ۱. باده- مدرسه امیرکبیر ۲. الفت- سلاح سرد- یگانه ۳. اثر قلم- راهنمایی ۴. پریشان- بزه ۵. برگ برنده- بی سر و پا- شهر باقلوا ۶. دستار کمر- مرتعش- عدد خیتی ۷. پیکر- مولد برق- مکمل مهره ۸. درخت مخروطی- شب عرب- من و شما ۹. شجاع- مرطوب ۱۰. میوه تلفنی- زهر ۱۱. نمایندگان قانونی- حرف تایید- عدل ۱۲. پانکراس- یار مرد

عمودی:
۱. یار باوفای امام علی (ع)- ابتدا ۲. پول سامورایی ها- زبان- ابزار برقی خودرو ۳. بخشش- ماده غشای سلول گیاهی ۴. کودک- زنگ چاپار- عدد فوتبالی ۵. سفید آذری- سینمای آمریکا ۶. رازنهفته- قطار- شهر ارگ ۷. کلمه افسوس- پدر رستم- فرو دادن غذا ۸. نام برادر حضرت یوسف (ع)- ضربه سر ۹. نوعی سنبل الطیب- از لایه های جو- بی حس ۱۰. سیاره زهره- پارچه مالیدنی ۱۱. همبستگی- چهره- طمع ۱۲. آواز- کنایه از فرار کردن

حل جدول شماره ۷۵۴۱