

معمای شطرنج



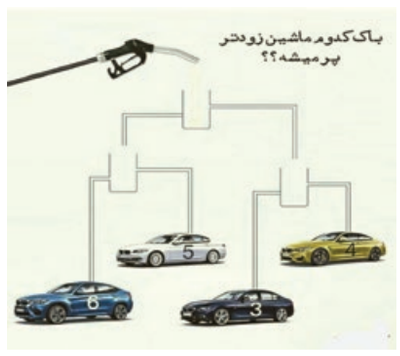
نوبت حرکت با سفید است و می تواند سیاه را در ۴ حرکت مات کند.

بازی ریاضی



همان طور که در تصویر بالا نیز مشخص شده است، ۸ توپ داریم که هر کدام با یک برچسب عددی مشخص شده‌اند. آیا می‌توانید سه تا از آن‌ها را انتخاب کنید به طوری که مجموع این سه عدد برابر ۳۰ باشد؟
توضیح: این معما با عنوان «مجموع سه عدد فرد برابر ۳۰ شود» معروف است.

تست هوش



با ک کدام ماشین زود تر از بقیه پر می شود ؟
فقط ۹ درصد افراد می توانند زیر ۱۰ ثانیه جواب درست را پیدا کنند !

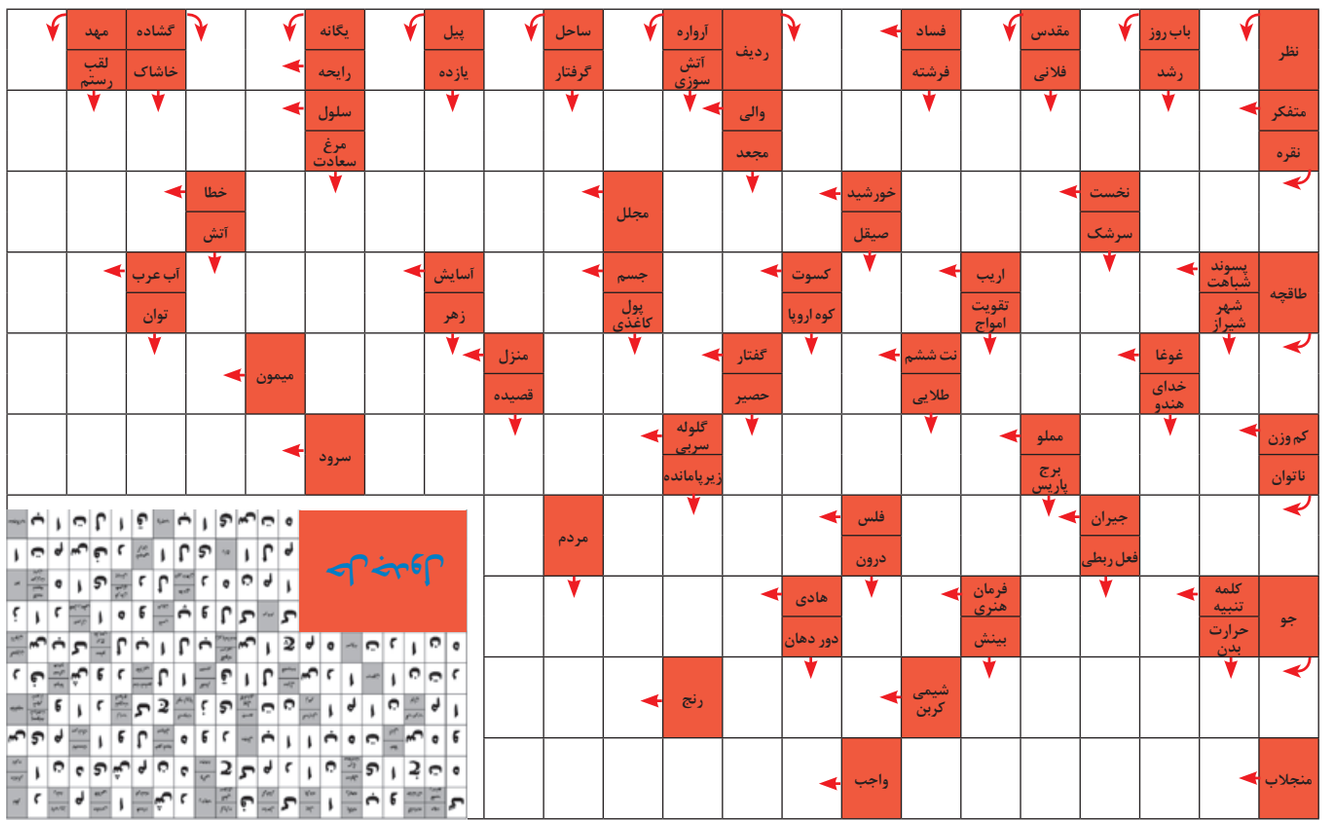
اختلاف را پیدا کن

آیا می توانید تفاوت بین دو تصویر مشابه را پیدا کنید؟ عکس ها را با هم مقایسه کنید و قدرت مشاهده خود را به معرض آزمایش بگذارید.






شرح در متن



جدول کلاسیک | ۷۴۲۶



افقی:
۱- باشگاه فوتبال آلمانی - خواب خوش ۲- فیلمی با بازی شهره سلطانی - گل منجمد - خسارت - پوستین روباه ۳- مرغابی - زورق - مقابل مد - همه ۴- هنوز فرنگی - زعفران - درختی بلند با برگ‌هایی مانند برگ بادام ۵- چهارمن تبریز - بند کردن - باتلاق ۶- جانشین دکمه - خلیج - خوراک ۷- نوعی سنگ که ساییده آن برای درمان جرب به کار می‌رود - قایق روسی - نشان ۸- مخوف - فیلم منفی ۹- از به پا کردنی ها - هر چینه از دیوار گلین که روی هم چینند - درمانده ۱۰- جد - نوعی ورزش راکت و توپ - پسر ۱۱- زهر - از قبایل صدر اسلام - عدد دروازه بان ۱۲- وسیله ترمز - وشینه - گیاهی پرخار ۱۳- بزرگ منشی - کدر - نقاره بزرگ - کلمه افسوس ۱۴- خمیازه - برداشت محصول - تصدیق آلمانی - والیبالیست کشورمان ۱۵- سنگ فرش - اثری از مریلین رابینسون


عمودی:
۱- آهنگی از مجید یحیایی - سریالی با بازی علی صادقی ۲- خشم - جای بسیار سرد - باج و خراج ۳- راز نهفته - از نام های بختیاری - علامت تجاری - لقب سلاطین پیشدادی ۴- دندانه کلید - تله ۵- منها - بوی رطوبت - گلی زینتی ۶- ادیت - افشرده ۷- سنگ سخت - سرخ کمرنگ - خاموشی ۸- فیلمی از سید جواد هاشمیان ۹- اندام گل - بخاردهان - گیتی ۱۰- از آثار تاریخی همدان - قسمتی از معده گوسفند ۱۱- آتش - ناپیدا - گیاه پارچه‌ای ۱۲- عالم - خودبین ۱۳- خورشید - عقاب - اندیشه - تعهد به پیمان ۱۴- بی‌عیب - شقایق - سرگرد قدیمی ۱۵- جاذبه گردشگری اندونزی - نوعی انجیر

حل جدول شماره ۷۴۲۵

	۱	۲	۳	۴	۵	۶	۷	۸	۹	۱۰	۱۱	۱۲	۱۳	۱۴	۱۵
۱	م	ع	م	ا	ی	ش	ن	ه	ا	■	ق	ا	ص	د	ک
۲	ح	ا	ل	■	ا	ب	ف	ت	■	س	ن	ج	■	د	ر
۳	م	چ	■	م	و	ک	ت	■	چ	ن	د	ر	■	م	ا
۴	د	■	ش	و	ر	و	■	ط	و	ب	ی	■	ا	ه	و
۵	ط	ر	ا	ز	■	ک	ن	ا	ز	■	ل	ا	ن	ی	ی
۶	ی	ک	د	س	ت	■	ق	ر	ا	ر	■	س	و	د	ا
۷	ب	و	■	م	ش	ک	د	م	■	ز	ا	پ	ا	س	■
۸	ی	■	ب	ا	ت	ا	■	ه	ر	ی	ز	■	ا		
۹	■	ب	ا	ل	ک	ن	■	س	م	ن	د	ر	■	ب	ک
۱۰	د	ر	ز	و	■	ب	ل	ا	گ	■	ب	و	س	ت	ر
۱۱	م	ت	ر	ن	م	■	خ	ر	ا	س	■	ژ	و	ل	ک
۱۲	پ	ر	س	■	ا	ط	ل	س	■	و	ل	ی	د	■	ا
۱۳	خ	ی	■	ک	د	و	خ	■	ا	پ	ا	■	ر	ف	ک
۱۴	ت	■	ا	ش	ک	ر	■	ق	ن	ا	ت	ر	و	ی	
۱۵	■	ا	ب	و	ی	■	ق	ص	ر	پ	ا	ت	و	ل	ا

خفن استریپ

برای سرگرم کردن ذهن شما با نگاه طنز، زیر هر تصویر، کلمه معناداری نوشتیم که تعداد حروف آن را در زیر تصویر کشیده‌ایم.



سودوکو

قانون: ارقام ۱ تا ۹ را در خانه‌های خالی بنویسید طوری که در هر سطر، در هر ستون و در هر مربع ۳ در ۳ هیچ رقمی تکراری نباشد.

متوسط
۳۵ دقیقه

			۲	۴	۵			
				۷		۲	۶	۸
	۷	۹	۱				۳	
۴			۹	۲				
					۳		۷	
				۸	۷			۴
	۱		۵		۲	۷		
	۸	۵		۱				
		۶	۸	۳	۴			

معمای کیک مادربزرگ

مادربزرگ با فرزندانش تماس گرفت و پرسید بچه‌های کدام‌یک از آن‌ها می‌توانند برای عصرانه به خانه او بروند. بعد هم یک کیک پخت؛ اما متاسفانه فراموش کرد چند تا از نوه‌هایش قرار است به خانه او بیایند. مادربزرگ فقط می‌داند نوه‌ها ۳ یا ۵ یا ۶ نفر خواهند بود و در هر صورتی می‌خواهد به همه بچه‌ها به مقدار مساوی کیک برسد. حالا شما بگویید او باید کیک را به چند قسمت مساوی تقسیم کند؟



حل جداول و معماها



ششمین کیک را به ۱۲ قسمت مساوی تقسیم کند. سپس هر کدام از بچه‌ها یک قسمت از کیک را می‌گیرد و ۶ قسمت باقی می‌ماند.



Qxf6+ Kg8 Qg5+ Kh8 Qh6+ Kg8 Qh7#

۱۱+۱۳+۶=۳۰

مبل ترنج
محصول مشترک ایران و ترکیه
production of iran and turkey
Buy Branded & Original
هفتاد و یکمین سالروز انتشار و چاپ روزنامه قدیمی و صمیمی خراسان را به تمامی خراسانی های عزیز و کلیه مدیران وکارکنان خدوم آن روزنامه وزین تبریک و تهنیت عرض می نماییم
شعبات فروش روزهای جمعه عصر از ساعت ۱۸ الی ۲۲ دایر میباشند.
شعبه ۱/ نبش سناباد ۴۳
۰۵۱-۳۸۴۳۳۱۰۰
شعبه ۲/ نبش سناباد ۴۵
۰۵۱-۳۸۴۳۶۰۱۸
شعبه ۳/ نبش سناباد ۵۵
۰۵۱-۳۸۴۶۴۳۴۶