معمای شطرنج


A B C D E F G H
1 2 3 4 5 6 7 8

نوبت حرکت با سفید است، آیا می توانید تنها در سه حرکت، مهره سیاه را مات کنید؟

خفن استریپ

حدس بزنید تصویر، چه کلمه‌ای را نشان می‌دهد! به نمونه توجه کنید و برای این که بدانید کلمه چند حرفی است، تعداد خانه های زیر تصویر را بشمارید.


نمونه
پ
پ س ر
من مجبورم بارم رو روی دوشم بزارم! اینو می‌دی به من؟!

○○○○○○○○○○


کلاس ما امسال طبقه اوله
ولی ما رو انداختن طبق دوم

○○○○○○○○○

معما

مجید از حیواناتی که در باغچه خانه شان نگهداری می کند، برای دوستانش تعریف می کند. او در باره تعداد این حیوانات می گوید: «همه حیوان هایی که در باغچه نگهداری می کنم گربه اند به جز دوتا، همه حیوان هایی که در باغچه نگهداری می کنم خرگوش هستند به جز دوتا و همه حیوان هایی که در باغچه نگهداری می کنم همستر هستند به جز دوتا.»

به نظر شما مجید حداقل چند حیوان در باغچه خانه شان نگهداری می کند؟

بازی ریاضی

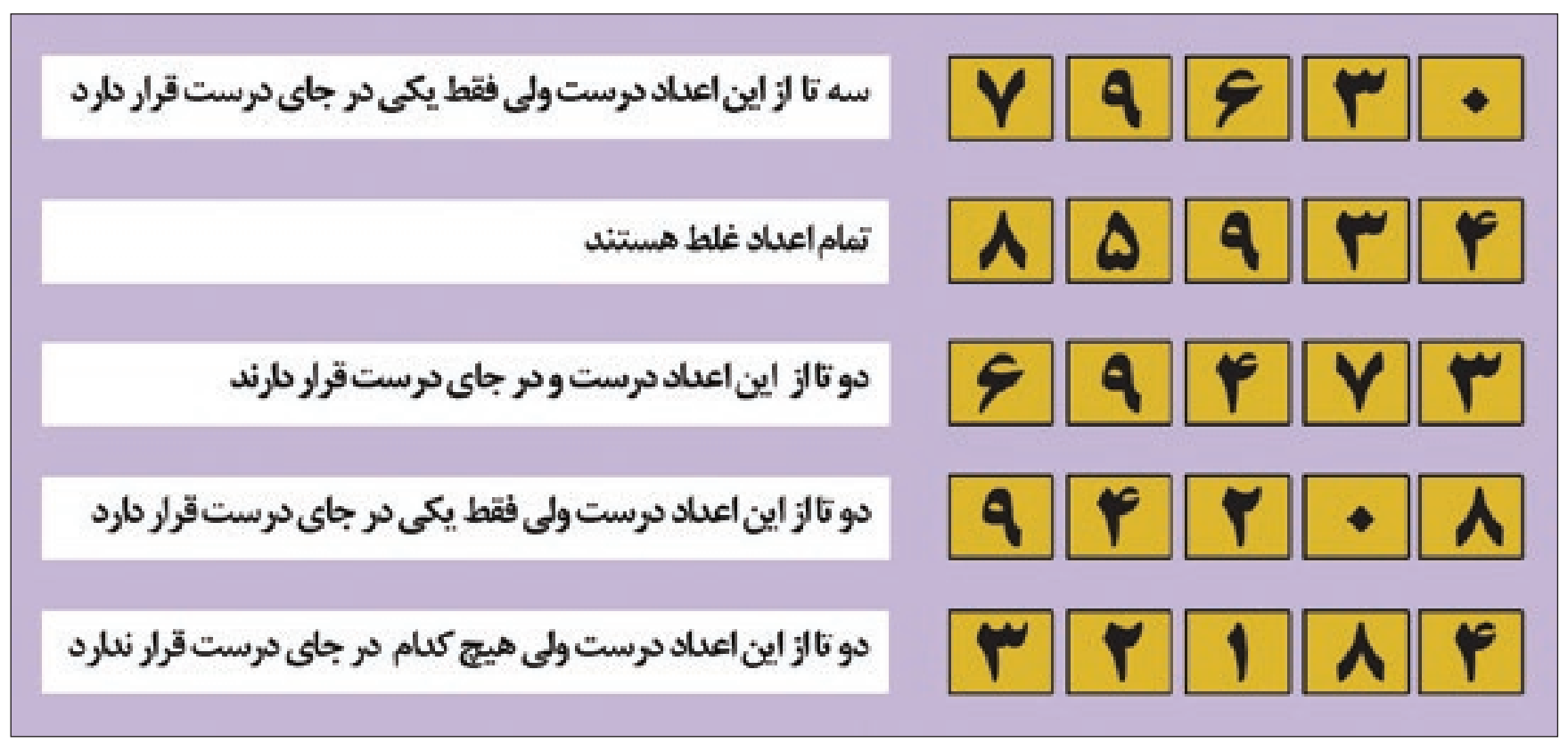

۰	۳	۶	۹	۷	سه تا از این اعداد درست ولی فقط یکی در جای درست قرار دارد
۴	۳	۹	۵	۸	تمام اعداد غلط هستند
۳	۷	۴	۹	۶	دو تا از این اعداد درست و در جای درست قرار دارند
۸	۰	۲	۴	۹	دو تا از این اعداد درست ولی فقط یکی در جای درست قرار دارد
۴	۸	۱	۲	۳	دو تا از این اعداد درست ولی هیچ کدام در جای درست قرار ندارد

اگر کمی با اعداد رابطه خوبی داشته باشید، می توانید رمز ۵ رقمی مخفی شده را بر اساس داده های بالا بیابید؛ فقط کافی است کمی دقت کنید و رابطه بین اعداد را در سطرهای بالا پیدا کنید.

تست هوش

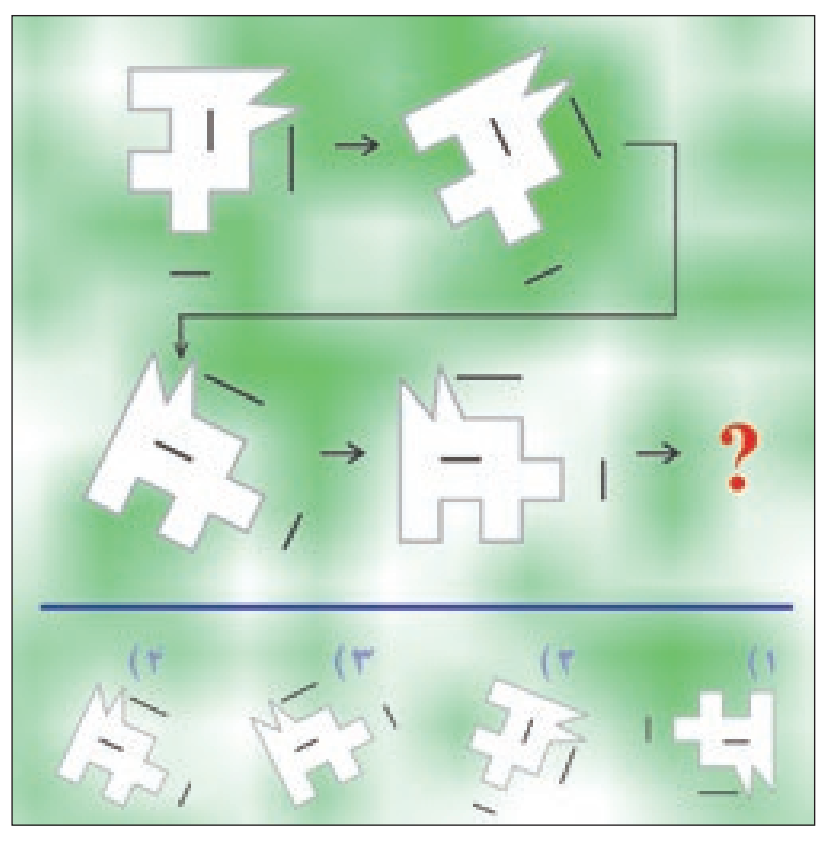

با توجه به شکل های داده شده در بالا، گزینه مناسب را انتخاب کنید.

شرح در متن

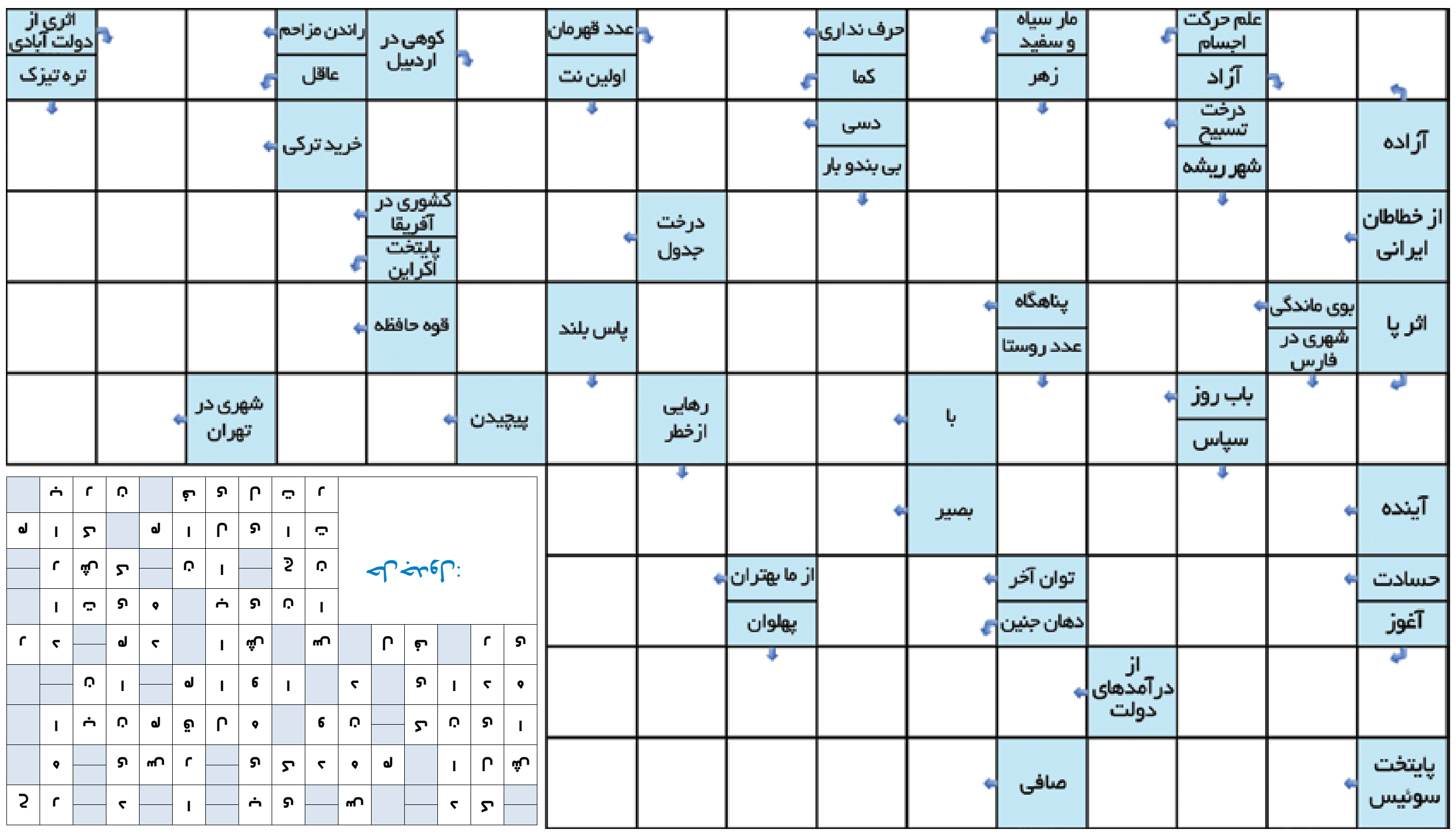
اثری از دولت آبادی
تره تیزک
راندن مزاحم
عاقل
کوهی در اردبیل
خرید ترکی
عدد قهرمان
اولین نت
حرف نداری
کما
دسی
بی بندو بار
مار سیاه و سفید
زهر
علم حرکت اجسام
آزاد
درخت تسبیح
شهر ریشه
آراده
کشوری در آفریقا
پایتخت آکراین
درخت جدول
از خطاطان ایرانی
قوه حافظه
پاس بلند
پناهگاه
عدد روستا
بوی ماندگی
شهری در فارس
اثر پا
شهری در تهران
پیچیدن
رهایی از خطر
با
باب روز
سپاس
بصیر
آینده
از ما بهتران
پهلوان
توان آخر
دهان جنین
حسادت
آغوز
از درآمدهای دولت
صافی
پایتخت سوئیس

حل جدول:

ح	ر		د		ا		ب	ی		س			د	ک	
	ه		ی	س	ر		ی	ک	د	ه	م		ا	ل	ش
	ا	ب	ن	م	ق	ل	ه		و	ن		ک	ن	ی	ا
		ن	ا		م	ا	و	ا		د		ی	ا	د	ه
ر	د		م	د		ا	ش		س		ل	ف		ر	ی
	ا	ت	ی	ه		ب	ی	ن	ا						
	ر	ش	ک		ن	ا		چ	ن						
م	ا	ک		م	ا	ل	ی	ا	ت						
	ب	ر	ن		ف	ی	ل	ت	ر						

اختلاف تصاویر

آیا می توانید تعداد ۱۰ تفاوت را بین دو تصویر مشابه پیدا کنید؟
با این تمرین می توانید آلزایمر را از خود دور کنید. این بازی همچنین ورزشی برای ذهن شماست تا در کارهای روزمره تمرکز بیشتری داشته باشید.
لذت این بازی زمانی بیشتر می شود که آن را در کنار خانواده و با مشارکت آن ها انجام دهید.


Sold by Babylon Hobbies
Sold by Babylon Hobbies

سودوکو

■ قانون: ارقام ۱ تا ۹ را در خانه‌های خالی بنویسید طوری که در هر سطر، در هر ستون و در هر مربع ۳ در ۳ هیچ رقمی تکراری نباشد.

متوسط ۳۰ دقیقه

۷		۸	۴				۵	
۴	۲	۶				۸		
			۶					
				۶		۳		۹
۸			۳		۷			۱
۳		۱		۹				
		۲				۱	۸	۴
	۵				۲	۶		۳

بسیار سخت ۵۰ دقیقه

		۹			۵		۸	۲
	۷		۶		۳			
۶					۴	۵	۳	
					۲	۳		
		۱		۸		۴		
		۶	۱					
	۹	۷	۲					۱
			۹		۸		۷	
۲	۶		۴			۹		

حل جداول و معماها

۷	۱	۸	۴	۲	۳	۹	۵	۶
۴	۲	۶	۵	۱	۹	۸	۳	۷
۵	۹	۳	۶	۷	۸	۴	۱	۲
۲	۷	۵	۸	۶	۱	۳	۴	۹
۸	۶	۹	۳	۴	۷	۵	۲	۱
۳	۴	۱	۲	۹	۵	۷	۶	۸
۶	۸	۷	۱	۳	۴	۲	۹	۵
۹	۳	۲	۷	۵	۶	۱	۸	۴
۱	۵	۴	۹	۸	۲	۶	۷	۳

۴	۳	۹	۷	۱	۵	۶	۸	۲
۸	۷	۵	۶	۲	۳	۱	۹	۴
۶	۱	۲	۸	۹	۴	۵	۳	۷
۷	۸	۴	۵	۶	۲	۳	۱	۹
۹	۲	۱	۳	۸	۷	۴	۶	۵
۳	۵	۶	۱	۴	۹	۷	۲	۸
۵	۹	۷	۲	۳	۶	۸	۴	۱
۱	۴	۳	۹	۵	۸	۲	۷	۶
۲	۶	۸	۴	۷	۱	۹	۵	۳

بازی ریاضی:

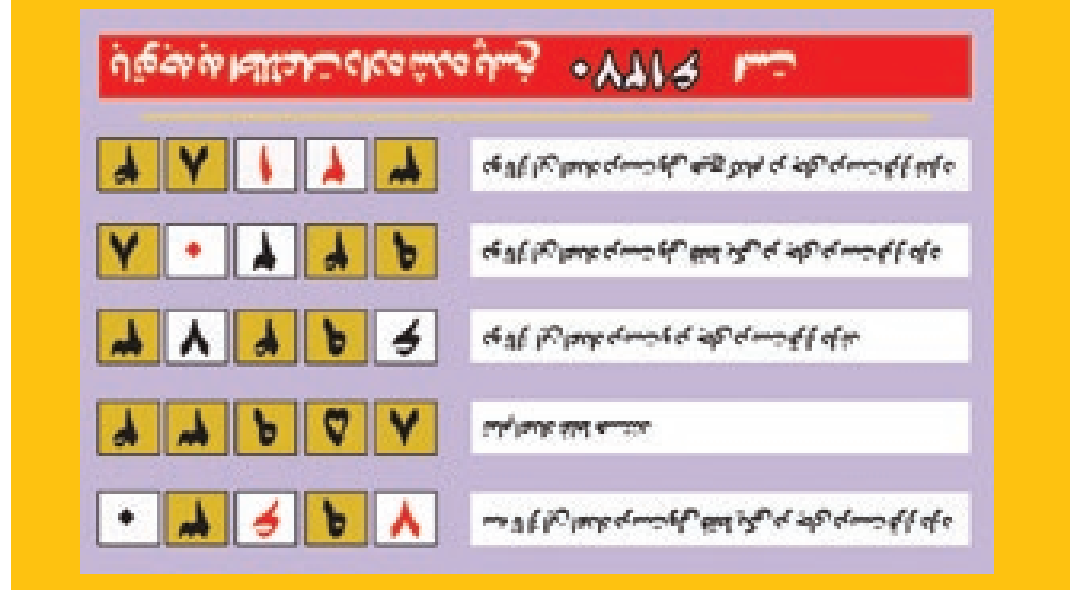

۰	۳	۶	۹	۷	سه تا از این اعداد درست ولی فقط یکی در جای درست قرار دارد
۴	۳	۹	۵	۸	تمام اعداد غلط هستند
۳	۷	۴	۹	۶	دو تا از این اعداد درست و در جای درست قرار دارند
۸	۰	۲	۴	۹	دو تا از این اعداد درست ولی فقط یکی در جای درست قرار دارد
۴	۸	۱	۲	۳	دو تا از این اعداد درست ولی هیچ کدام در جای درست قرار ندارد

با توجه به اطلاعات داده شده پاسخ ۶۱۲۷۰ است

معمای شطرنج:
Nc7+ Kd8
Ne6+ Ke8
Ng7#

خفن استریپ:
خواستگاری
کلاس بالا

اختلاف تصاویر:



تست هوش: گزینه (۳) در هر بار شکل ۳۰ درجه در جهت عکس عقربه‌های ساعت می چرخد.

معما : مجید ۳ حیوان دارد یعنی از هر کدام یکی.

جواب‌ها

جدول سخت | ۷۴۶

افقی: ۱ .پیشوندی برابر یک میلیون–انباره– کوزه ۲ .دیو طمع –چیز–زدنی ناراضی ۳ .نوعی خط باستانی ۴ .گرفتگی زبان–پژمردگی–دسر ایرانی ۵ .دعای زیر لب– سلطان مغولی–فلز لحیم کاری ۶ .آخرین توان–پای چلاق–پارچه لطیف زخم بندی–مقیاس قدیمی طول ۷ .کافی–واحد شمارش مغازه–از ادات استفهام–علامت جمع ۸ .جایز– کلاه فرانسوی–دریغ ۹ .پایتخت نروژ–طلا–یکه ۱۰ .شهر بندری ژاپن ۱۱ .رود شولوخف–لقب سلاطین پیشدادی–اصفهان قدیم ۱۲ .سرو کوهی–لیف خرما–از آفات زراعتی

عمودی: ۱ .بازیگر پدرخوانده ۲ .سوغات اصفهان– سردار رومی– جنس خشن ۳ .سرزمین هفتاد و دوملت–شیمی کربنی ۴ .مخترع آمریکایی بمب–لیل–واحد پول کره جنوبی ۵ .حیله گر ۶ .کاخ تاریخی هندوستان–سلاح ضد تانک ۷ . فیلمی با بازی امیرحسین رستمی –ابا ۸ .فوتبالیست اسپانیایی ۹ .حرکت غیر ارادی عصبی–امر به زیستن–سوغات گجرات ۱۰ .شکاف قلم–مادر آذری ۱۱ .اساس–مارمولک –هواپیمای سریع ۱۲ .روزنامه امیرکبیر


۱ ۲ ۳ ۴ ۵ ۶ ۷ ۸ ۹ ۱۰ ۱۱ ۱۲
۱ ۲ ۳ ۴ ۵ ۶ ۷ ۸ ۹ ۱۰ ۱۱ ۱۲



حل جدول شماره ۷۴۵

جدول متوسط | ۷۵۳۹

افقی: ۱ .لباس–شمارک– ذره بنیادین ۲ .آب روستایی–جانب–بخار دهان ۳ .ورزشگاه ۴ .موسسه اقتصادی–رمق–اقیانوس کبیر ۵ .میوه تابستانی–خویشاوندی–شکستگی لایه های زمین ۶ .سطح–کل–حشره جهنده ۷ .اندرون دهان–جوانمرد–عنصر تیروئید ۸ .سرازیری–لاف–لطف ۹ .جوش صورت–امر به آوردن–لشکر ۱۰ .اصلاح بی نظمی دندان ها ۱۱ .رسته–ساز مرداب–دانه ۱۲ .کلاغ سیاه–لنز–مکر

عمودی: ۱ .زن دیرنشین– دهقان ۲ .عادت– از مسابقات ورزشی– مکان ۳ .از خدایان بابلی – عمارت ۴ .عبادت–ناشنوا–بدون قانون ۵ .دورویی ۶ .عطر مایه–بلندترین قله ایران ۷ .مادر رستم–بوستان ۸ . پاک ۹ .ام البشر–ضربه سر– تنگی نفس ۱۰ .فوت–رجز ۱۱ .انتها–مشایعت نظامی–دشمن باطل ۱۲ .ثروت–مانند


۱ ۲ ۳ ۴ ۵ ۶ ۷ ۸ ۹ ۱۰ ۱۱ ۱۲
۱ ۲ ۳ ۴ ۵ ۶ ۷ ۸ ۹ ۱۰ ۱۱ ۱۲



حل جدول شماره ۷۵۳۸