معمای شطرنج

متوسط



نوبت حرکت با سفید است، آیا می توانید تنها در چهار حرکت، مهره سیاه را مات کنید؟

خفن استریپ

سخت

حدس بزنید تصویر، چه کلمه ای را نشان می‌دهد! به نمونه توجه کنید و برای این که بدانید کلمه چند حرفی است، تعداد خانه های زیر تصویر را بشمارید.

هوش تحلیلی

متوسط

با توجه به تصاویر داده شده کدام گزینه برای جای خالی مناسب است؟

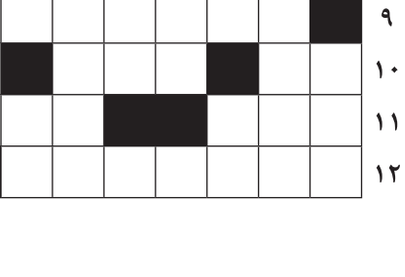

بازی ریاضی

آسان

اگر کمی با اعداد رابطه خوبی داشته باشید، می توانید رمز ۵ رقمی مخفی شده را بر اساس داده های بالا بیابید؛ فقط کافی است کمی دقت کنید و رابطه بین اعداد را در سطرهای بالا پیدا کنید.

تست هوش

متوسط

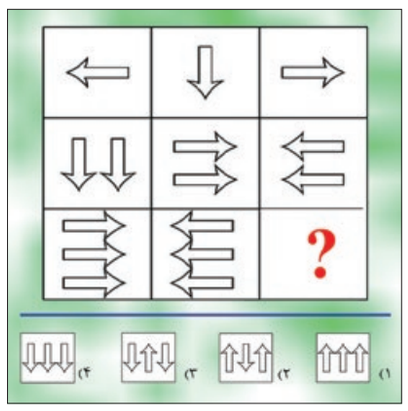

با توجه به شکل بالا، گزینه مناسب را برای جای خالی پیدا کنید.

عددیاب

متوسط

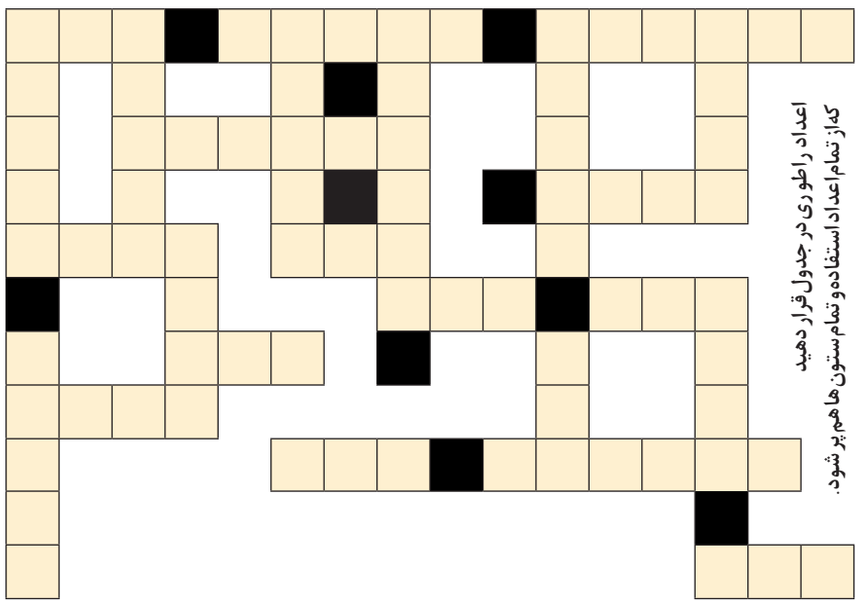

اعداد را طوری در جدول قرار دهید که از تمام اعداد استفاده و تمام ستون ها هم پر شود.

سه رقمی:
۴۳۵-۲۸۳-۵۴۲
۲۹۶-۵۳۸-۷۴۸
۹۸۵-۸۳۲

چهار رقمی:
۲۹۱۸-۲۸۷۳
۸۵۷۲-۳۶۸۲
۸۷۶۲-۲۹۶۳

پنج رقمی:
۹۷۶۲۸-۹۲۱۸۵
۸۶۲۴۵-۵۳۲۱۶
۳۸۴۹۵-۵۲۴۳۱

شش رقمی:
۵۷۶۸۲۹-۵۳۶۲۸۱
۹۶۱۵۸۲-۲۸۳۲۹۱

معما

متوسط

امتحان سخت

مجید، ناصر و محمدعلی هر کدام در مدرسه های «الف»، «ب» و «ج» درس می خوانند و فردا هر کدام امتحان دارند.
مجید در مدرسه «الف» درس نمی خواند.
ناصر هم در مدرسه «ب» درس نمی خواند.
بچه های مدرسه «الف» امتحان ریاضی ندارند.
بچه های مدرسه «ب» امتحان انگلیسی دارند.
ناصر امتحان علوم ندارد.
آیا می توانید بگویید محمدعلی چه امتحانی دارد و در چه مدرسه ای درس می خواند؟

اختلاف تصاویر

سخت

آیا می توانید تعداد ۱۰ تفاوت را بین دو تصویر مشابه پیدا کنید؟
با این تمرین می توانید آلزایمر را از خود دور کنید. این بازی همچنین ورزشی برای ذهن شماست تا در کارهای روزمره تمرکز بیشتری داشته باشید.
لذت این بازی زمانی بیشتر می شود که آن را در کنار خانواده و با مشارکت آن ها انجام دهید.

سودوکو

قانون: ارقام ۱ تا ۹ را در خانه‌های خالی بنویسید طوری که در هر سطر، در هر ستون و در هر مربع ۳ در ۳ هیچ رقمی تکراری نباشد.

متوسط ۳۰ دقیقه

		۹			۵	۴	۷	
	۲			۷	۸	۳	۱	
				۹				
			۴				۲	۶
	۵						۴	
۸	۹				۲			
				۱				
	۳	۷	۸	۲			۵	
	۱	۸	۵			۶		

بسیار سخت ۵۰ دقیقه

		۵		۲	۹		۶	
					۸		۹	۵
				۵				۳
۴					۶			۷
		۱				۲		
۹			۲					۴
۷				۶				
۳	۵		۴					
	۸		۳	۹		۶		

حل جداول و معماها



معمای شطرنجی: ۱. Nc5!! e+2
۲. Kd2 Nf1+
۳. Ke1!! Kxe1
۴. Nd3+#

خفن استریپ: ناسازگاری

هوش تحلیلی: گزینه (۱) تنها گزینه‌ای است که کوچک می‌شود. بقیه گزینه‌ها فقط به صورت چپ‌وراست و بالا‌پایین دیده می‌شوند.

تست هوش: گزینه (۲) در سه خانه هر ستون فقط یک مثلث وجود دارد.

معمای امتحان سخت: ناصر یا در مدرسه «الف» است یا «ج». از آن جا که ناصر در مدرسه «ب» نیست امتحان انگلیسی ندارد و امتحان علوم هم ندارد. بنابراین محمدعلی در مدرسه «الف» است و امتحان علوم دارد. چون مجید در مدرسه «الف» نیست پس در مدرسه «ب» است و امتحان انگلیسی دارد و بنابراین ناصر در مدرسه «ج» است و امتحان ریاضی دارد.

جدول سخت | ۷۸۳

افقی: ۱. خشمگین- کاسه ساچمه ۲. غربال- سرخ- مقدس ۳. شهر فلاسفه- خرما- پنج آذری ۴. ریسمان- تابلویی از فرانسیسکو گویا ۵. مکمل مهره- دریای سریانی- حشره ای بال دار ۶. دروازه- رودی در بوشهر ۷. تبدیل مایع به گاز- کبود ۸. گهواره- خمیده- نهیب ۹. از آلات نجومی- عبادت ۱۰. پشه- حرف عطف- چروک ۱۱. کابوی خوش شانس- فیگور- اصطلاحی در کشتی ۱۲. داروی طبی برای تسکین درد و تب- لبلاب

عمودی: ۱. باد گرم تابستان- سده- مصیبت ۲. فرمان خودرو- مراقب- زنگ کلیسا ۳. از درختان بومی استرالیا- فنجان قهوه ۴. خشب- جشن ترکی ۵. علامت تجاری- سنگ سخت ۶. پاشنه پا- جهان‌بینی ۷. ورزشگاه رئال سارا گوسا- دورنمای عمر ۸. بالابانچی- خانه شاعران ۹. آش- زنبور عسل ۱۰. حرف تردید- ژئولوژی ۱۱. قلاب ماهی گیری- اسب- از مصالح ساختمانی ۱۲. عضو حس سامعه- از شهرهای سیستان و بلوچستان- استخوان سرزانو

حل جدول شماره ۷۸۲

جدول متوسط | ۷۵۷۶

افقی: ۱. گفت و گوی اینترنتی- چیدمان ۲. یار اسطرلاب- بدبخت- درس خوانده ۳. رمزینه- مرتجع فلزی- دریا ۴. گوشه ها- شکست پوسته زمین ۵. دفاع فوتبالی- سوره زنان- از وسایل ورزشی ۶. دماپا ۷. صدر اعظم ۸. کلاه جنگی- رشته مو- شایعه ۹. حرکت غیر ارادی عصبی- تئاتر ۱۰. پودر- نوعی حریر نازک- بنده ۱۱. زمزمه زرتشتیان- ترس خودرو- تفاله عسل ۱۲. ضدعفونی شده- امر به زیستن

عمودی: ۱. چاپلوسی ۲. مضمون- قورباغه- کالا ۳. پای افزار- باطل- نقطه اینترنتی ۴. مذهب و کیش- میوه خشکبار- در بازی می زنند ۵. بغل- اتاق عکاسان ۶. اهدا- پول خارجی- پایتخت افغانستان ۷. میدان بوکس- نماز بدون وضو- گل نرم ۸. غذاخوری- بوی پشم سوخته ۹. زهر- ننر- نا ۱۰. جوشن چرمین- چکش بزرگ- درد ۱۱. یگانه- از ادات استفهام- جوش خمیر ۱۲. صنعتی از نفت و گاز



حل جدول شماره ۷۵۷۵