هوش منطقی

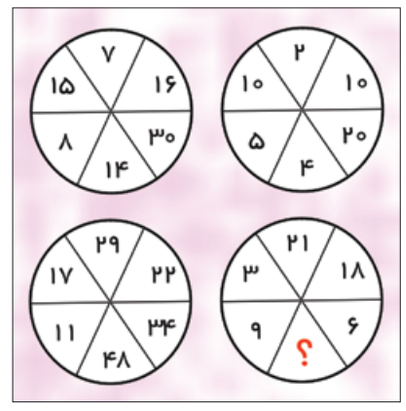

با توجه به الگوی عددی داده شده به جای علامت سوال عدد مناسب را قرار دهید.

خفن استریپ

حدس بزنید تصویر، چه کلمه ای را نشان می‌دهد! به نمونه توجه کنید و برای این که بدانید کلمه چند حرفی است، تعداد خانه های زیر تصویر را بشمارید.

چالش ذهن

وسیله شناسی

در تصویر زیر با جا به جایی حروف به کار رفته در هر کدام از شماره ها نام یکی از وسایل منزل را نوشته‌ایم که شما باید آن را حدس بزنید. پیشنهاد می کنیم با تمرکز این بازی را قبل از دیدن پاسخ های آن حل کنید و ذهن خود را به چالش بکشید.

بازی ریاضی

۳	۸	۹	۲	۴
۶	۳	۰	۷	۹
۱	۷	۶	۰	۲
۵	۰	۳	۴	۷
۹	۵	۸	۳	۶

- سه تا از این اعداد درست ولی فقط یکی در جای درست قرار دارد
- تمام اعداد غلط هستند
- دو تا از این اعداد درست و در جای درست قرار دارند
- دو تا از این اعداد درست ولی فقط یکی در جای درست قرار دارد
- دو تا از این اعداد درست ولی هیچ کدام در جای درست قرار ندارد

اگر کمی با اعداد رابطه خوبی داشته باشید، می توانید رمز ۵ رقمی مخفی شده را بر اساس داده های بالا بیابید؛ فقط کافی است با کمی دقت رابطه بین اعداد را در سطرهای بالا پیدا کنید.

تست هوش



با توجه به شکل های داده شده، گزینه مناسب را انتخاب کنید

شرح در متن

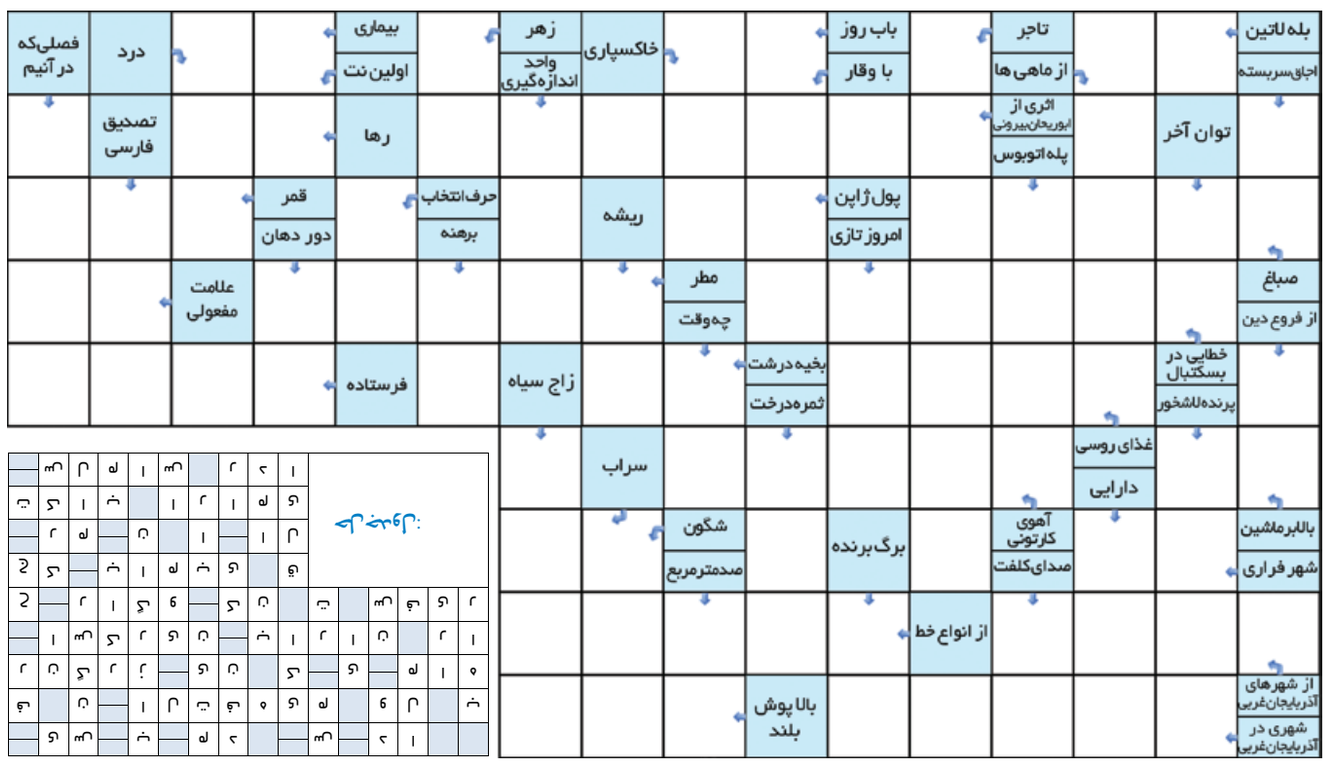

اختلاف تصاویر

آیا می توانید تعداد ۱۰ تفاوت را بین دو تصویر مشابه پیدا کنید؟
با این تمرین می توانید آلزایمر را از خود دور کنید. این بازی همچنین ورزشی برای ذهن شماست تا در کارهای روزمره تمرکز بیشتری داشته باشید.
لذت این بازی زمانی بیشتر می شود که آن را در کنار خانواده و با مشارکت آن ها انجام دهید.



سودوکو

قانون: ارقام ۱ تا ۹ را در خانه‌های خالی بنویسید طوری که در هر سطر، در هر ستون و در هر مربع ۳ در ۳ هیچ رقمی تکراری نباشد.

متوسط ۳۰ دقیقه

۹			۲		۴			۶
		۶		۷		۱		
	۳						۹	
	۹	۸	۷		۲	۳	۱	
			۳		۱			
	۴	۱	۸		۶	۲	۷	
							۴	
		۲		۳		۵		
۵			۴		۸			۱

بسیار سخت ۵۰ دقیقه

۳			۸	۶				۲
		۷	۲		۳		۶	
۲	۵	۶						
				۹	۶			۴
	۲						۱	
۹			۵	۳				
						۵	۸	۳
	۹		۴		۱	۶		
۵				۷	۸			۱

حل جداول و معماها



پاسخ جواب‌ها

تست هوش: گزینه (۴) در هر سه حالت شکلی که در ردیف بالا از سمت راست شکل سوم است به ردیف پایین آمده و بقیه شکل ها به جز مثلث یک واحد به سمت چپ حرکت می کنند و شکل ردیف پایین به سمت راست ردیف بالا می‌رود.

جواب ها

خفن استریپ: میلگرد
چالش ذهن: ۱. سفره ۲. کاپیت ۳. جاروبرقی ۴. کاناپه ۵. مبل تلویزیون ۶. چرخ خیاطی
اختلاف تصاویر:

پازل ریاضی:

۳	۸	۹	۲	۴
۶	۳	۰	۷	۹
۱	۷	۶	۰	۲
۵	۰	۳	۴	۷
۹	۵	۸	۳	۶

سه تا از این اعداد درست ولی فقط یکی در جای درست قرار دارد
تمام اعداد غلط هستند
دو تا از این اعداد درست و در جای درست قرار دارند
دو تا از این اعداد درست ولی فقط یکی در جای درست قرار دارد
دو تا از این اعداد درست ولی هیچ کدام در جای درست قرار ندارد

معمای منطقی: هر پنجشن از دایره پنجشن روبه رویی خود ارتباط دارد و همان طور که به دست آوردید هر پنجشن دو بار پنجشن روبه رویی خود را نتیجه جواب عدد ۲۲ خواهد بود.

جدول سخت | ۸۶۵

افقی: ۱. الهه خرد یونانیان- شاهکار ادبی هرمان ملویل ۲. عدد ریوی- پروتئین گیاهی- لامپ الکترونیکی دوقطبی ۳. لباس رسمی اروپایی- سوره شصت و هفتم قرآن- ناسازگار ۴. جوهر شوره- نمک اسید کلریک ۵. نفس خسته- ناپدری ۶. بزرگ‌ترین شهر پاراگوئه ۷. اثری از حمیدی شیرازی ۸. خوب- گروه موسیقی ۹. سرمای سخت- موچین ۱۰. نرم‌افزاری معروف- نصف- کمک ۱۱. همدم- شیره چغندرقند- تصدیق بیگانه ۱۲. غده ای در قسمت فوقانی شکم و پشت معده- هیمه



عمودی:

۱. شقی- جام قهرمانی ۲. از ماه های سریانی- جوان ۳. دیو طمع- تنظیم کننده قند خون ۴. جایزه سینمایی- سیخونک ۵. متدین ۶. نوعی کمدی- بسیار- شاعر افسانه ۷. آلوی جنگلی- پول کره- مزه خرمالو ۸. بافتی گیاهی ۹. از شبه فلزات- معبد یهودیان ۱۰. دانش حرکت- قاچ نشده ۱۱. خانه ترکی- قنات ۱۲. سبزی تنبل- آشوب‌طلبی

حل جدول شماره ۸۶۴

جدول متوسط | ۷۶۵۹

افقی: ۱. بازیگر ستایش ۲. کمانگیر افسانه ای- فلز چهره- ستاره ۳. آخرین نازی- خاکروبه- از بلاهای طبیعی ۴. پیشکار- موی نرم ۵. پایتخت ایتالیا- پارچ آب- زادگاه نیما ۶. ورزش راکتی ۷. خوراکی با بادمجان ۸. اضطراب- روان- موجود نامرئی ۹. پیله- جهان مینوی ۱۰. قصد- روز- تعجب بانوان ۱۱. ترسو- میوه تابستانی- عشق فرنگی ۱۲. در هر کاری دخالت کردن



عمودی:

۱. سلحشور ژاپنی- فرزند پسر ۲. مساوی- فرار- عالم بین دنیا و آخرت ۳. شهر زیارتی- سرگشته- شروع ۴. نااستوار- موشواره- دشمن سرسخت ۵. خیس- بخل ۶. حرف نفی آذری- عصاره ۷. احتمال خطر- آموزگار مکتب ۸. بلور- غوزه پنبه ۹. یادداشت- بخیه- کشتی جنگی ۱۰. وسیله درو- نحس- زودباور ۱۱. نام باستانی ایران- اتمسفر- نام آذری ۱۲. پدر رستم- نمونه کالا



حل جدول شماره ۷۶۵۸