هوش تحلیلی

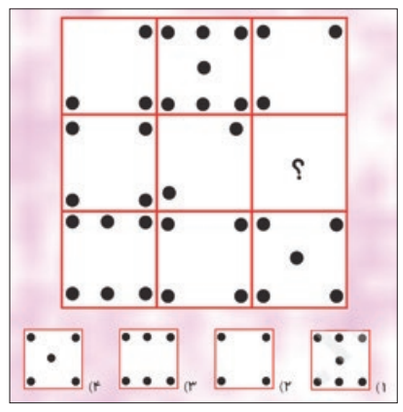

کدام گزینه می‌تواند شکل را کامل کند؟ (شکل‌ها را ستونی بررسی کنید.)

بازی ریاضی

سه تا از این اعداد درست ولی فقط یکی در جای درست قرار دارد	۱	۸	۵	۹	۴
تمام اعداد غلط هستند	۷	۶	۴	۲	۵
دو تا از این اعداد درست و در جای درست قرار دارند	۶	۳	۲	۸	۷
دو تا از این اعداد درست ولی فقط یکی در جای درست قرار دارد	۹	۴	۷	۶	۰
دو تا از این اعداد درست ولی هیچ کدام در جای درست قرار ندارد	۲	۴	۸	۹	۶

اگر کمی با اعداد رابطه خوبی داشته باشید، می توانید رمز ۵ رقمی مخفی شده را بر اساس داده های بالا بیابید؛ فقط کافی است با کمی دقت رابطه بین اعداد را در سطرهای بالا پیدا کنید.

تست هوش

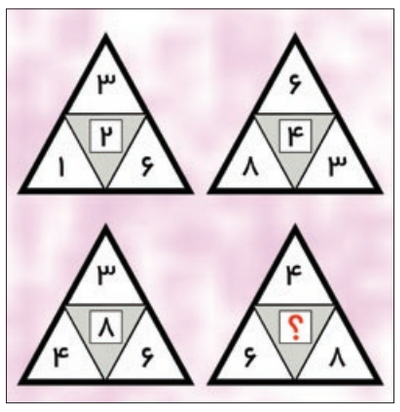

با کشف رابطه اعداد داده شده در شکل، برای جای خالی عدد مناسب را پیدا کنید.

خفن استریپ

حدس بزنید تصویر، چه کلمه ای را نشان می‌دهد! به نمونه توجه کنید و برای این که بدانید کلمه چند حرفی است، تعداد خانه های زیر تصویر را بشمارید.

عددیاب

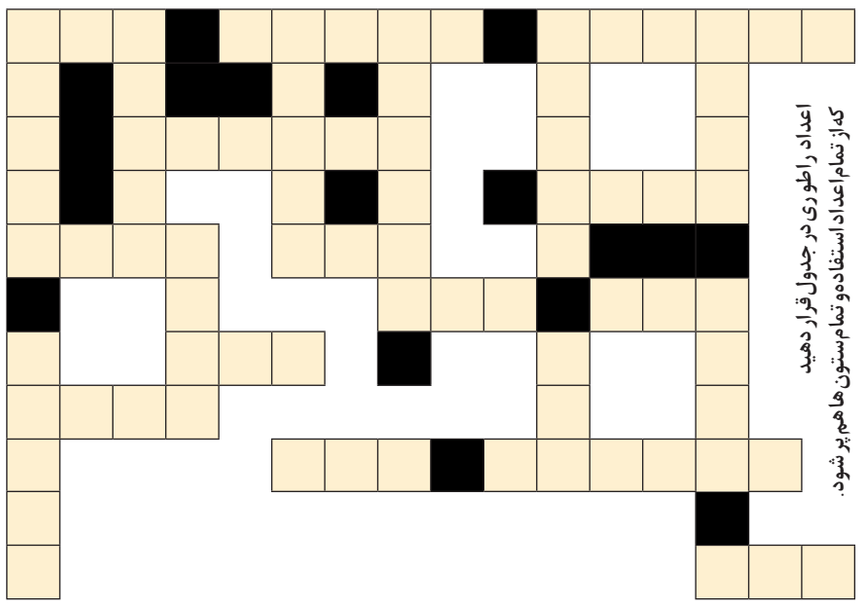

اعداد را طوری در جدول قرار دهید که از تمام اعداد استفاده و تمام ستون ها هم پر شود.

سه رقمی:
۷۲۶-۴۱۵-۸۳۱
۶۳۹-۳۵۷-۱۹۲
۵۳۷-۲۹۱

چهار رقمی:
۹۵۸۲ - ۳۶۵۲
۱۲۳۴ - ۲۸۶۴
۵۷۸۱-۵۶۷۱

پنج رقمی:
۱۲۸۵۷ - ۲۴۳۵۸
۹۲۷۳۱ - ۲۶۷۳۵
۴۲۸۷۵-۷۲۸۳۹

شش رقمی:
۷۳۶۹۸۲-۲۹۸۳۱۵
۸۳۵۸۲۶-۵۱۶۲۷۱

معما (۱)

امتحان ۱۰ امتیازی

در امتحانی هر شرکت کننده از اول ۱۰ امتیاز داشت و باید دقیقا به ۱۰ سوال جواب می داد. هر شرکت کننده به ازای هر جواب درست، یک امتیاز می گرفت و به ازای هر جواب غلط یک امتیاز از دست می داد. می دانیم که امتیاز مهرداد ۱۴ شد.

او به چند سوال جواب درست داده است؟

۱) ۷ ۲) ۸ ۳) ۹ ۴) ۶ ۵) ۴

معما (۲)

صندلی های کلاس

در کلاسی تعداد صندلی های هر ردیف با تعداد صندلی های هر ستون برابر است. اگر در هر طرف صندلی میانی این کلاس ۳ صندلی وجود داشته باشد.

در مجموع چند صندلی در این کلاس وجود دارد؟

۱) ۳۴ ۲) ۳۶ ۳) ۴۲ ۴) ۴۹

چالش ذهن

بازی کلمات

در تصویر زیر برای شما تعدادی از حروف را نوشته ایم که باید بر اساس مربع های خالی در هر سطر کلماتی با همان تعداد حروف را بنویسید.

اختلاف تصاویر

آیا می توانید تعداد ۱۰ تفاوت را بین دو تصویر مشابه پیدا کنید؟
با این تمرین می توانید آلزایمر را از خود دور کنید. این بازی همچنین ورزشی برای ذهن شماست تا در کارهای روزمره تمرکز بیشتری داشته باشید.
لذت این بازی زمانی بیشتر می شود که آن را در کنار خانواده و با مشارکت آن ها انجام دهید.

سودوکو

قانون: ارقام ۱ تا ۹ را در خانه‌های خالی بنویسید طوری که در هر سطر، در هر ستون و در هر مربع ۳ در ۳ هیچ رقمی تکراری نباشد.

متوسط ۳۰ دقیقه

۳		۲						
				۹			۲	
		۴	۳		۲		۵	
	۲	۸		۵	۴			۶
۶								۱
۱			۶	۲		۵	۷	
	۳		۹		۶	۸		
	۵			۳				
						۴		۲

بسیار سخت ۵۰ دقیقه

۳			۵			۶	۸	۲
	۸		۳					
۹					۷	۴		
۷								
۱	۵	۶				۷	۴	۳
								۶
		۳	۴					۸
					۲		۷	
۶	۹	۱			۵			۴

حل جداول و معماها

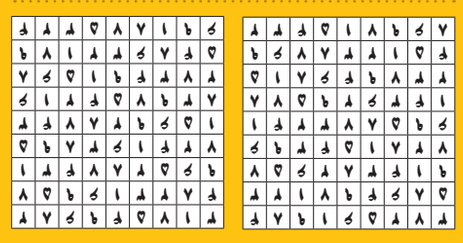

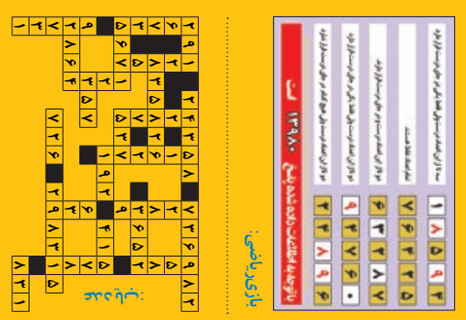

بازی ریاضی:

اختلاف تصاویر:

معمای امتیازی ۱۰ امتیازی: گزینه ۱ صفر. داده حراقل به ۲ سوال جواب درست داده است. ۱۴ امتیاز (امتیاز مهرداد) طوری جواب داده است: ۶ سوال درست، ۲ سوال غلط و ۲ سوال هم جواب غلط داده است. یکدیگر را خنثی کرده اند. نتیجه ۲ سوال جواب درست داده است. بنابراین به ۸ سوال درست جواب داده است.

معمای صندلی های کلاس: گزینه ۲ (۱۶). در هر طرف صندلی میانی این کلاس ۳ صندلی قرار دارد در نتیجه تعداد کل صندلی ها ۷ صندلی قرار دارد و چون در هر ردیف هم ستون ها ۷ صندلی وجود دارد.

خفن استریپ: حسود دارد

چالش ذهن: سه حرفی ها: شکر، شکر، شکر،